ĐỀ KIỂM TRA TOÁN LỚP 2

Kiểm tra Học kỳ 1 (mức nâng cao – đề 3)

15 câu · Thời gian gợi ý: 25 phút

Họ và tên: .....

Lớp: ..... **Ngày:** ...../...../.....

Điểm

Câu 1. Xếp que tính

Xếp 3 hình vuông và 2 hình tam giác rời nhau bằng que tính (mỗi cạnh một que). Cần bao nhiêu que tính?

Bài giải:

.....

.....

.....

Đáp số: .....

Câu 2. Bảng trừ

Phép trừ nào có kết quả bé nhất?

A. 12 – 7 B. 11 – 9 C. 16 – 7 D. 13 – 7

Câu 3. Ba điểm thẳng hàng

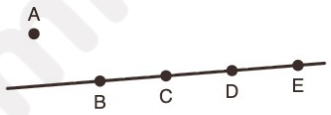

Trên hình có bao nhiêu bộ ba điểm thẳng hàng?

Bài giải:

.....

.....

.....

Đáp số: .....

mamhoc.com

Quét QR: bé học tiếp
mamhoc.com/play
Không cài đặt, không đăng ký

Câu 4. Xem lịch



Trong tháng 10, An đi học bơi vào mỗi thứ Hai và thứ Ba. Xem tờ lịch: tháng 10 An đi học bơi bao nhiêu buổi?

Bài giải:

Đáp số: .....

Câu 5. Đếm số

Có bao nhiêu số lớn hơn 16 và bé hơn 74?

Bài giải:

Đáp số: .....

Câu 6. Giải toán

Tủ sách của lớp có 73 quyển. Các bạn mượn về nhà 16 quyển, sau đó trả lại 18 quyển. Hỏi tủ sách có bao nhiêu quyển?

Bài giải:

Đáp số: .....

Quét QR: bé học tiếp
mamhoc.com/play
Không cài đặt, không đăng ký

Câu 7. Tính

7 + 2 + 2 = ?

Bài giải:

Đáp số: .....

Câu 8. Dãy số

Cho dãy số 21, 29, 37, ... (mỗi số hơn số liền trước 8 đơn vị). Số thứ 7 của dãy là bao nhiêu?

Bài giải:

Đáp số: .....

Câu 9. Suy luận

Tối qua Dũng đi ngủ lúc 9 giờ tối và sáng nay thức dậy lúc 7 giờ sáng. Hỏi Dũng ngủ bao nhiêu giờ?

Bài giải:

Đáp số: .....

Câu 10. Suy luận

Năm nay Bình 9 tuổi, mẹ hơn Bình 29 tuổi. Hỏi 7 năm nữa tổng số tuổi của hai mẹ con là bao nhiêu?

Bài giải:

Đáp số: .....

Quét QR: bé học tiếp
mamhoc.com/play
Không cài đặt, không đăng ký

Câu 11. Suy luận

Một can đựng đầy dầu nặng 20 kg. Dùng hết một nửa số dầu thì can dầu còn nặng 12 kg. Hỏi can rỗng nặng bao nhiêu ki-lô-gam?

Bài giải:

.....

.....

.....

Đáp số: .....

Câu 12. Đếm hình vuông

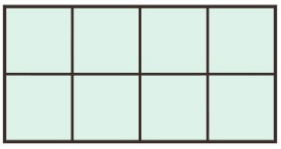

Hình bên được chia thành các ô vuông bằng nhau. Có tất cả bao nhiêu hình vuông?

Bài giải:

.....

.....

.....

Đáp số: .....

Câu 13. Đếm số

Từ 1 đến 100 có bao nhiêu số có chữ số 4?

Bài giải:

.....

.....

.....

Đáp số: .....

mamhoc.com

Quét QR: bé học tiếp
mamhoc.com/play
Không cài đặt, không đăng ký

Câu 14. Cân thăng bằng

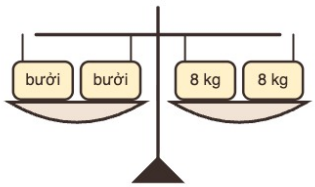

Hai quả bưởi trên đĩa cân bên trái nặng bằng nhau. Mỗi quả bưởi nặng bao nhiêu ki-lô-gam?

Bài giải:

.....

.....

.....

Đáp số: .....

Câu 15. Suy luận

Tổng của hai số là số lớn nhất có hai chữ số. Số hạng thứ nhất là số lẻ bé nhất có hai chữ số. Tìm số hạng thứ hai.

Bài giải:

.....

.....

.....

Đáp số: .....

mamhoc.com

Quét QR: bé học tiếp
mamhoc.com/play
Không cài đặt, không đăng ký

ĐÁP ÁN

Mã đề T2-HK1-15-N-24048 · Kiểm tra Học kỳ 1 (mức nâng cao – đề 3)

Câu 1: 18 · Gấp, cắt, ghép, xếp hình. Vẽ đoạn thẳng

Mỗi hình vuông cần 4 que: 4 + 4 + 4 = 12. Mỗi hình tam giác cần 3 que: 3 + 3 = 6. Tất cả: 12 + 6 = 18 que.

Câu 2: B. 11 – 9 · Bảng trừ (qua 10)

12 – 7 = 5; 16 – 7 = 9; 11 – 9 = 2; 13 – 7 = 6. Kết quả bé nhất là 2, của phép trừ 11 – 9.

Câu 3: 4 · Điểm, đoạn thẳng, đường thẳng, ba điểm thẳng hàng

Chỉ các điểm trên đường thẳng mới thẳng hàng với nhau: B, C, D, E (điểm A nằm ngoài). Các bộ ba điểm: BCD, BCE, BDE, CDE. Có 4 bộ.

Câu 4: 9 · Thực hành xem đồng hồ, xem lịch

Các ngày thứ Hai: 3, 10, 17, 24, 31. Các ngày thứ Ba: 4, 11, 18, 25. Tất cả có 9 buổi.

Câu 5: 57 · Tia số, số liền trước, số liền sau

Các số từ 17 đến 73. Có 73 – 17 + 1 = 57 số.

Câu 6: 75 · Ôn tập phép cộng, phép trừ trong phạm vi 100

Sau khi mượn còn 73 – 16 = 57 quyển. Sau khi trả: 57 + 18 = 75 quyển.

Câu 7: 11 · Phép cộng (qua 10) trong phạm vi 20

Tính từ trái sang phải: 7 + 2 = 9; 9 + 2 = 11.

Câu 8: 69 · Cộng (có nhớ) số có hai chữ số với số có một chữ số

Đếm thêm 8 lần lượt: 21, 29, 37, 45, 53, 61. Số thứ 7: 61 + 8 = 69.

Câu 9: 10 · Ngày – giờ, giờ – phút

9 giờ tối là 21 giờ. Từ 21 giờ đến 24 giờ (nửa đêm) là 3 giờ. Từ nửa đêm đến 7 giờ sáng là 7 giờ. Tất cả: 3 + 7 = 10 giờ.

Câu 10: 61 · Cộng (có nhớ) số có hai chữ số với số có hai chữ số

Năm nay mẹ 9 + 29 = 38 tuổi. 7 năm nữa Bình 9 + 7 = 16 tuổi, mẹ 38 + 7 = 45 tuổi. Tổng là 16 + 45 = 61.

Câu 11: 4 · Thực hành với ki-lô-gam, lít

Một nửa số dầu nặng 20 – 12 = 8 (kg). Nửa còn lại trong can cũng nặng 8 kg, nên can rỗng nặng 12 – 8 = 4 (kg).

Câu 12: 11 · Ôn tập hình phẳng

Hình vuông nhỏ (1 ô): 8. Hình vuông to gồm 4 ô: 3. Tất cả: 8 + 3 = 11 hình vuông.

Câu 13: 19 · Các số đến 100: cấu tạo, so sánh, đếm số, đếm chữ số

Chữ số 4 ở hàng đơn vị: 4, 14, ..., 94 – có 10 số. Chữ số 4 ở hàng chục: 40 đến 49 – có 10 số. Số 44 bị đếm hai lần, nên có 10 + 10 – 1 = 19 số.

Quét QR: bé học tiếp
mamhoc.com/play
Không cài đặt, không đăng ký

Câu 14: **8** · Ki-lô-gam

Bên phải nặng 8 + 8 = 16 (kg). Hai quả bưởi nặng 16 kg, mỗi quả nặng 8 kg (vì 8 + 8 = 16).

Câu 15: **88** · Các thành phần của phép cộng, phép trừ

Tổng là 99, số hạng thứ nhất là 11. Số hạng thứ hai là 99 – 11 = 88.

mamhoc.com

Quét QR: bé học tiếp
mamhoc.com/play
Không cài đặt, không đăng ký